Σύνθεση και ανάλυση σχημάτων

Ταξινόμηση σχημάτων με διαφορετικά κριτήρια

1 Να γράψεις τον αριθμό ο οποίος δείχνει 2 περισσότερα από τα σχήματα σε κάθε εικόνα.

1.	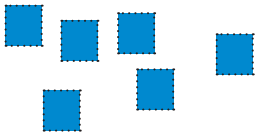	2.		3.	
4.	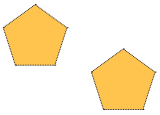	5.		6.	
7.		8.	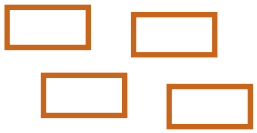	9.	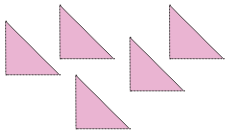
10.	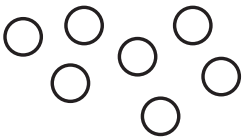	11.		12.	

2 Ποιο σχήμα δεν ταιριάζει σε κάθε ομάδα;

1.		2.		3.	
4.		5.		6.	

3 Να χρησιμοποιήσεις όσα σχήματα μοτίβου θέλεις από το κάθε είδος, για να κατασκευάσεις μια σκηνή στη φύση.

BEEDIGITAL

4 Να βάλεις τα πιο κάτω σχήματα σε ομάδες ενώνοντας όλα τα σχήματα κάθε ομάδας με μία γραμμή.



5 Να λύσεις τα πιο κάτω προβλήματα.

1. Ποιο από τα πιο κάτω σχήματα δεν ανήκει στην ίδια ομάδα με το

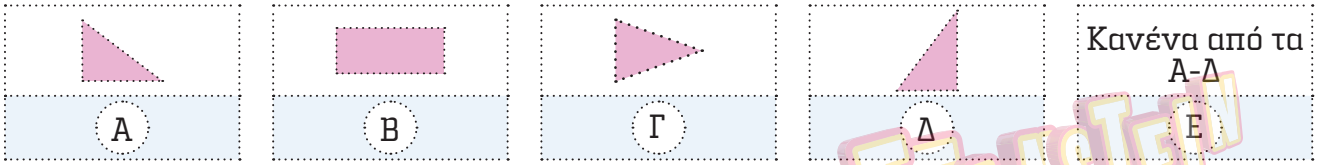

BEETLESTED

2. Ποια από τα πιο κάτω σχήματα ανήκουν στην ίδια ομάδα;

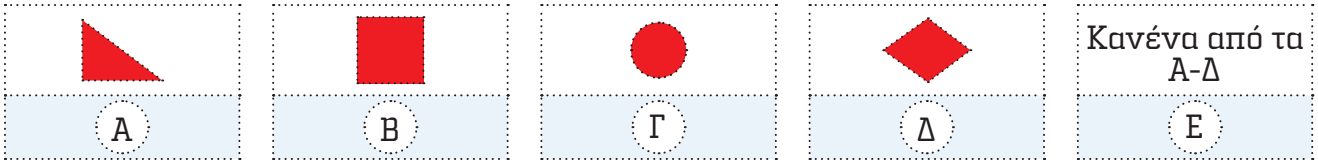

3. Ο Αντρέας έχει 7 μπάλες. Ο αδερφός του ο Ορέστης έχει 2 περισσότερες και ο αδερφός του ο Περικλής έχει 2 λιγότερες. Πόσες μπάλες έχει ο Ορέστης και πόσες ο Περικλής;

Απάντηση:

4. Στον κήπο υπάρχουν 2 γλάστρες. Στη μια υπάρχουν 5 λουλούδια και στην άλλη υπάρχουν 3 περισσότερα. Πόσα λουλούδια έχει η δεύτερη γλάστρα;

Απάντηση: